高雄市立右昌國中學 103 學年度第二學期二年級第一次段考地理科試題

一、單選題　　二年　班座號　　姓名

(　　)1.每年農曆三月，全台各地便陷入一陣媽祖瘋，為媽祖慶生；其中最知名莫過於「大甲媽祖繞境進香」，至今已有一百年以上的歷史。因為臺灣移民多半來自福建漳、泉及廣東嘉應、潮、惠地區，而沿海地區正是海神媽祖信仰的大本營；所以隨著移民的播遷，媽祖信仰從福建湄洲，跟著傳到臺灣、香港、 澳門等地，甚至在東南亞其他地區如日本、琉球、越南等地以及東亞裔人士（主要為華人）之海外聚居地等世界二十多個國家及地區，也可見到奉祀媽祖的廟宇。造成上文所述的現象愈當地的哪一地理背景**最不相關？**

(A)設立經濟特區，工商業發達　(B)山多平原少，糧食不足

(C)人口外移，中國著名的僑鄉　(D)谷灣式海岸，依海維生。

(　　)2. 中國華南地區農業較發達，作物種類較多。下列關於該區域的地理敘述，何者**錯誤**?

(A) 海南島適合發展熱帶栽培業　(B) 小麥是主要糧食作物

(C) 珠江三角洲一帶種植甘蔗　(D) 東南丘陵適合栽種茶葉。

(　　)3. 【表一】是中國四大地區(華南、華中、華北、東北)的區域特色，請**由南向北**依序排列:

甲	山環水繞，沃野千里，森林資源豐富，重工業發達
乙	多平原、高原，開發歷史較早，煤產豐富，有小麥、棉花等農作物生產，陸運交通便利
丙	多盆地、平原，農業興盛，水運交通便利，是全國精華區
丁	有北回歸線橫貫，高溫多雨，山多平原少，河川富水力資源，少數民族眾多

【表一】

(A)甲乙丙丁　(B)丙丁甲乙　(C)丁丙乙甲　(D)甲丙丁乙。

(　　)4.太極龜日前看到一則新聞：「中國**某地區**因大量使用燃煤、燃油等重工業與工業廢氣，出現有毒霧霾；霧霾　是在空氣中的懸浮灰塵顆粒，顆粒中包含上百種化學物質，當懸浮灰塵顆粒嚴重的時候，天空就像一片灰霧　一樣。PM2.5 是細懸浮微粒的簡稱，這種微粒直徑只有2.5微米，可以被吸入人體，在氣管或肺中造成傷　害。由於整體空汙狀況相當嚴重，請當地居民儘量不要外出…」**某地區**最有可能是下列何者？

(A)環渤海　(B)長三角　(C)珠三角　(D)海南島。

(　　)5. 【表二】為「長江沿岸都市 1 月均溫資料」，可以發現重慶的溫度比其他三個都市高出許多，造成此現象主因為何？

都市	重慶	武漢	上海
一月均溫(℃)	7.6	3.8	3.7

【表二】

(A)距海較遠，缺乏海洋水氣調節　(B)重慶的緯度低於其他三個都市

(C)北邊有高山，阻擋冷空氣南下　(D)重慶市的工業區排放大量廢氣。

(　　)6. 中國東北地區向來以重工業發展聞名，隨著經濟改革開放，其發展相對緩慢，因而提出振興東北政策因應。關於此區域的困境敘述，何者最為恰當？

(A)缺乏便利的鐵路運輸系統　(B)地處高緯度，冬季河川結冰

(C)工廠設備老舊，國營事業比例高　(D)能源礦產耗盡，電力出現不足。

(　　)7. 三江平原一度曾有「北大荒」之稱，但是近年來農產大增，甚至可以大量出口至其他地區，成為農產豐富的「北大倉」，這和下列何者關係最大？

(A)灌溉設施　(B)人口快速成長　(C)生長季比其他地區長　(D)排水工程。

(　　)8.小黛魚 到雲貴高原旅遊，聽到導遊介紹當地的「壩子」。請問關於「壩子」，下列何者正確？

(A)為抵禦盜賊，發展土樓建築　(B) 為山間盆地，灌溉便利

(C)地勢陡峭，乾燥少雨　(D) 黃土廣布，千溝萬壑。

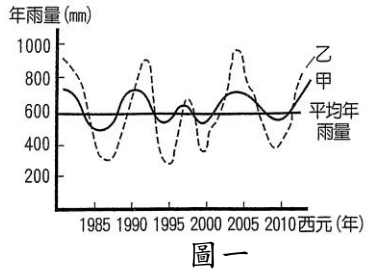

圖一

(　　)9.【圖一】為甲、乙兩地的年降水量變化圖，依圖中曲線判斷，下列敘述何者正確？

(A)甲地主要降水來源為梅雨　(B)乙地年降水量變率大

(C)甲地水、旱災頻繁　(D)乙地年溫差大。

(　)10.周杰倫看了國中地理課本的【圖二】，便寫下了龍拳：「…這民族的海岸線 像一支弓，那長江像五千年來待射的箭，我用手臂拉開這整個土地的重……。」 而位於「箭頭」上的都市，下列敘述何者正確？

(A)貿易量大，為一天然良港 (B)浦西地區是新興的金融服務業聚集中心

(C)礦產豐富，工商業發達　(D)地理位置優越，腹地廣大。

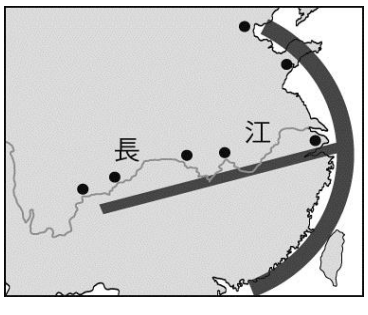

圖二

【 背面仍有試題　】

(　　)11.【圖三】為中國東北的年雨量分布圖。從圖中可看出東北雨量分布由東南向西北遞減，請問圖中雨量最多的地區，降水來源主要為下列何者？

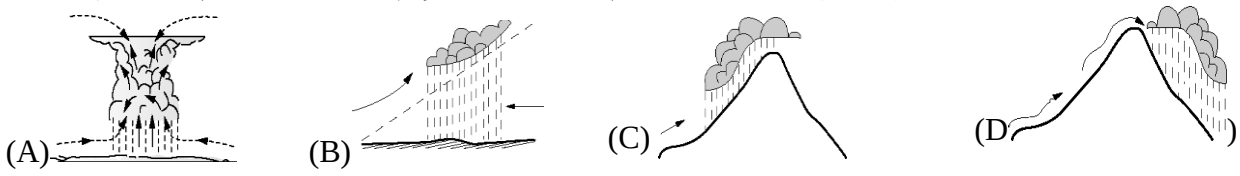

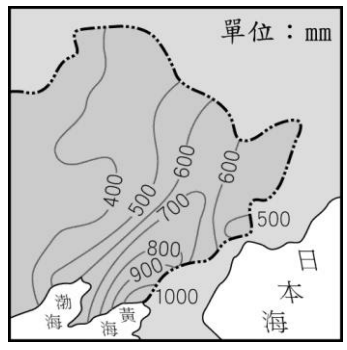

【圖三】

(　　)12.北韓前領導人金正日由於害怕恐怖襲擊，故無論外出視察或出訪，均無搭乘飛機的習慣。任內七次出訪中國均是搭乘專列火車，經過新義州、丹東、瀋陽、抵達北京。由於此特殊習慣，當金正日出訪中國時，日、韓媒體紛紛守在「中韓界河」的跨境大橋上，即能捕捉到專列經過的照片，請問「中韓界河」指的是哪一條河川？
(A) 烏蘇里江　(B) 松花江　(C) 黑龍江　(D) 鴨綠江。

(　　)13.昆明位於雲貴高原上，冬季不冷，夏季不熱，園藝業甚為發達，被喻為四季如春的「春城」，其氣候如此宜人主要是下列哪些因素的影響：(甲) 雨量較多 (乙) 地勢較高 (丙) 緯度較低 (丁) 距海遙遠。正確的是？(A)甲乙　(B)乙丙　(C)丙丁　(D)丁甲。

(　　)14.【圖四】為北部地區主要都市分布圖，下列對於各城市特色的敘述何者正確？
(A)甲:東北北部重要交通中心，有「東方莫斯科」之稱
(B)丁：古長安的棋盤式建築與秦始皇兵馬俑的多樣風貌
(C)戊: 有濃厚的文化氣息，也有許多國家機構聚集，市郊有「中國矽谷」之稱的中關村之稱。
(D)己：居兩湖盆地內、水陸交通便利，有「九省通衢」之稱。

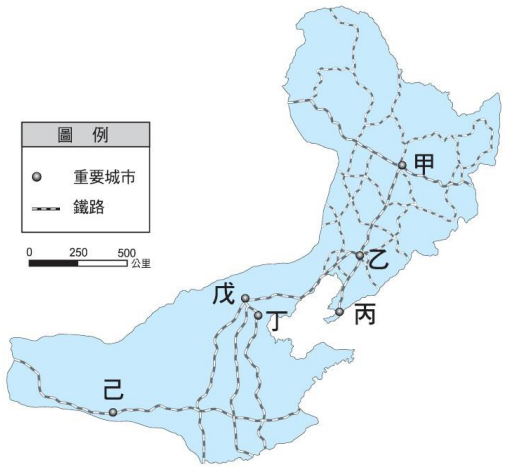

【圖四】

(　　)15中國某條河流有「能源流域」之稱，動力資源豐富，由上游至下游依序為水力、煤礦、石油，有利於現代工業發展，也吸引外國企業進駐設廠，請問：該河流最有可能為何者？
(A)珠江　(B)黃河　(C)長江　(D)松花江。

二、題組

黃河流域是中華文化的發祥地，因此黃河被稱為是中國的「母親河」，卻也因歷史上頻繁的災害，使黃河被稱為是「中國的憂患」，以至有「黃河平，天下寧」的說法，【圖五】為黃河主流示意圖，試回答第13-15題：

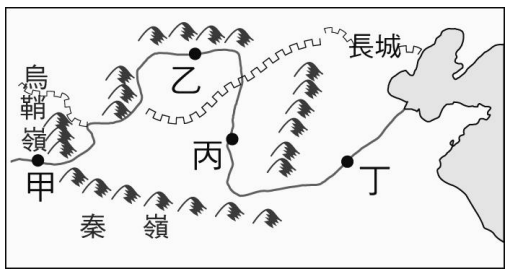

【圖五】

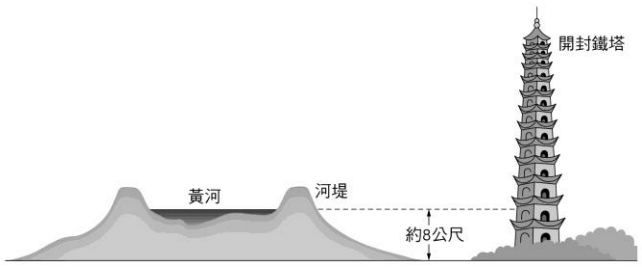

【圖六】

(　　)16. 黃河因泥沙淤積河道，造成水患頻仍。請問：要減少黃河的水患，應在【圖五】的哪一區域植樹造林，才可達到水土保持的功能？　(A)丁 (B)丙 (C)乙 (D)甲。

(　　)17.【圖五】中哪一地區最有可能出現【圖六】中河床高出兩岸平原的景觀？(A)丁 (B)丙 (C)乙 (D)甲。

(　　)18.唐詩有「黃河之水天上來，奔流到海不復回」，記述了黃河洶湧澎湃、奔騰入海的景觀。而近年某些報導卻指出：「黃河正成為汙染嚴重、季節性的斷流河。」請問：造成黃河有如此轉變的最主要原因為何？
(A)「南水北調」使河水流量減少　(B) 氾濫改道次數太過頻繁
(C) 下游形成地上「懸河」景觀　(D) 中、上游過度興建水庫。

歷經長久規劃，三峽大壩在1994年開工，2009年完工，是世界上最大的水利樞紐工程，三峽大壩肩負著防洪、發電、航運發展、南水北調等使命，縱使受到許多罵名，仍無法忽視其所帶來的經濟效益。【圖七】為長江主流示意圖，試回答第19-20題：

(　　)19.就防洪的經濟效益而言，三峽大壩最有助於解決哪一地理區的水患問題？
(A) 四川盆地　(B) 兩湖盆地　(C) 華北平原　(D) 長江三角洲。

(　　)20.下列何者「不是」興建三峽大壩所產生的影響？
(A) 使三峽人口大量遷移
(B) 使萬噸輪船可以直達重慶
(C) 淹沒兩湖盆地許多文化古蹟
(D) 上海附近因泥沙供應減少而海岸後退。

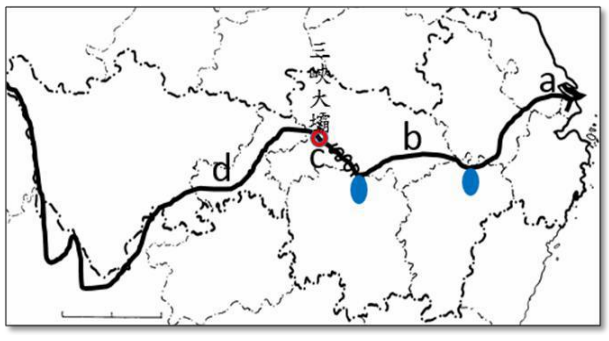

【圖七】

【　背面仍有試題　】

【圖八】為中國部分地理區及山脈分布簡圖，請根據圖中代號回答下列問題：

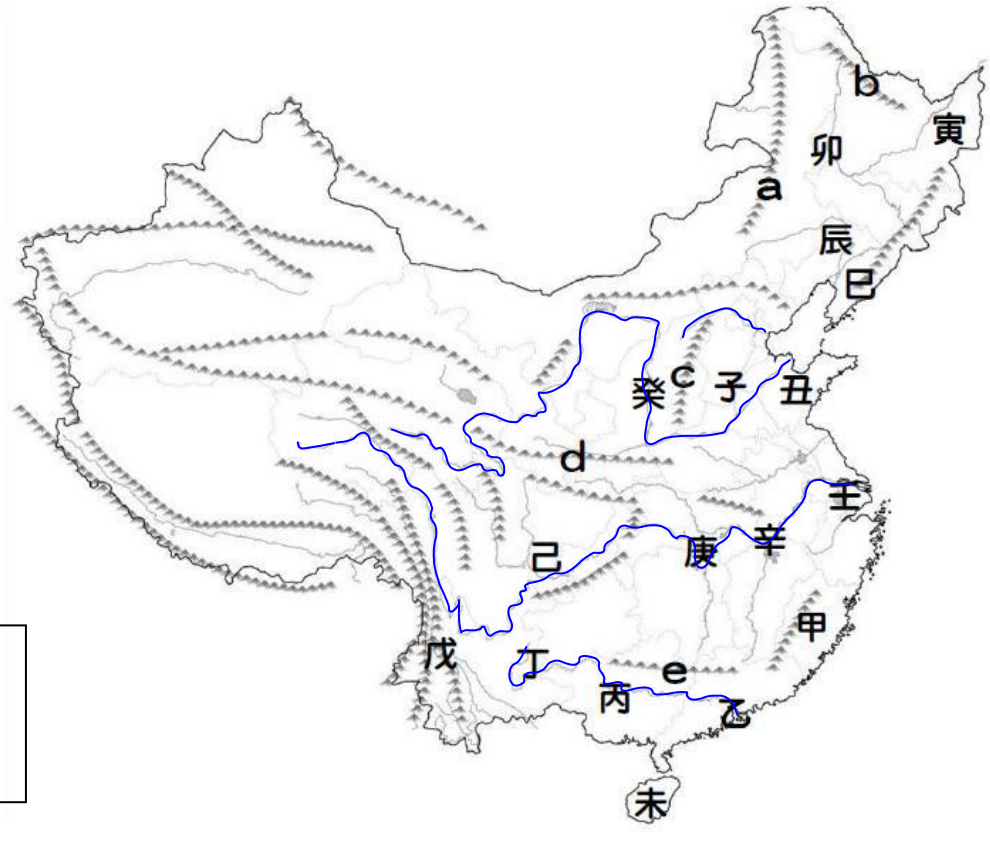

代號說明:
甲~巳:地形
a~e：山脈

(　　)21.下列哪一組諺語與地區的配對正確？
(A)湖廣熟，天下足：壬　(B)水鄉澤國：辛　(C)魚米之鄉：庚　(D)天府之國：己。

(　　)22.【表三】為 小王子整理關於黃土高原和華北平原的比較與說明中，哪一項是正確的？

地區	(A)位置	(B)形成作用	(C)昔日災害	(D)年雨量
黃土高原	子	風力堆積	地上河潰堤	較多
華北平原	癸	河流沖積	水土流失	較少

【表三】

(　　)23.下列山脈名稱與代號的配對是**「錯誤的」**？
(A)a:大興安嶺　(B)b:小興安嶺　(C)c:巫山　(D)d:秦嶺。

(　　)24.某個地區有一怪為「溜索比船快」－在大江之上、兩山之間，拉一根繩索將兩岸牽連起來，人懸空吊在繩索上，這邊溜過去，那邊溜過來，這就是溜索，請問這種特殊的交通方式可在哪裡看到？
(A)乙　(B)丙　(C)丁　(D)戊。

(　　)25.「食尚玩家」的主持人們到某個地區出外景，他們這裡看到一望無際的農田，農夫們正坐在收割機上收割大豆；導遊很驕傲地告訴他們，這裡的土壤是俗稱「土中之王」的黑土，全世界只有少數地方才有。請問他們最有可能造訪哪一個的地方?
(A)乙　(B)壬　(C)子　(D)卯。

【試題結束，請仔細檢查】