高雄市立右昌國中 104 學年度第 2 學期第 2 次地理科段考試題

_____年_____班　　座號____　　姓名_____

一、單選題 (25 題，每題 4 分，總分 100 分)

1. 內蒙古為少數民族自治區，該地居民多以信奉哪一種宗教為主？
(A)佛教(B)基督教(C)伊斯蘭教(D)藏傳佛教。

2. 澳洲大堡礁是世界最大最長的珊瑚礁群，由數十億隻微小的珊瑚蟲所建構成的，，豐富的珊瑚景色及海底奇觀吸引世界各地遊客前來旅遊觀賞。請問，有關大堡礁形成的作用力，下列何者正確？
(A)內營力(B)外營力(C)科氏力(D)自轉力

3. 承上題，該地區位於下列哪一洲？
(A)非洲 (B)大洋洲 (C)歐洲 (D)中南美洲

4. 阿喜成功克服高山症且完成青藏之旅，尤其難忘耐寒力強，其毛厚而長，有「高原之舟」稱號的馱獸。根據阿喜的敘述，她看到的動物可能是下列何者？

(A)
(B) 
(C)
(D) 

5. 下圖是「洋流示意圖」，請問，圖中「甲乙丙」依序代表的洋流類型為何？
(A)暖流、寒流、涼流
(B)寒流、暖流、涼流
(C)寒流、涼流、暖流
(D)涼流、暖流、寒流

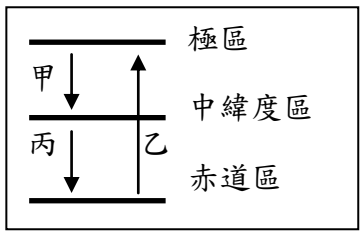

6. 「工業區位」是指工廠設置的地點，為了降低生產成本、提高利潤，工廠必須選擇合適的地點設置。近年來，許多廠商前往新疆投資設廠，旨在靠近原料產地，希望能減低原料運費或降低原料耗損。請問，基於以上因素而前往新疆的廠商中，最不可能為下列何者？(A)葡萄乾加工廠 (B)紡織工廠 (C)石化工廠(D)水泥工廠

7. 「年溫差」是同一年之中的最高月均溫減去最低月均溫。請問，下列何者將造成年溫差較大？
(A)緯度低、距海近(B)緯度低、距海遠
(C)緯度高、距海近(D)緯度高、距海遠

8. 新聞報導：2016 年 4 月月 16 日凌晨，日本熊本縣發生芮氏規模 7.3 強震地震，深度 12 公里。地震不但造成房屋倒塌，更引發多起火災，造成多人喪生，數百人輕重傷。請問，在日本熊本縣發生地震的原因最可能為下列何者？
(A)河流侵蝕(B)風力堆積(C)板塊擠壓(D)溫室效應

9. 全球氣候類型大致可分為熱帶、溫帶及寒帶三大類，請問，上述氣候分界線主要為下列何者？
(A)赤道、本初經線　　(B)回歸線、極圈
(C)本初經線、國際換日線(D)赤道、國際換日線

10. 台灣高中生小柏希望能進入號稱「全球最難進的夢幻大學」就讀，特地搭飛機前往國外參加四天三夜的入學考試。這期間，小柏發現當地居民多穿著寬大的衣服，頭纏著頭巾，女性更大多蒙著面紗，每天必面向聖城朝拜 5 次，餐廳幾乎不販賣豬肉商品，。請問小柏最可能前往下圖中哪一個地方？
(A)甲　(B)乙　(C)丙　(D)丁

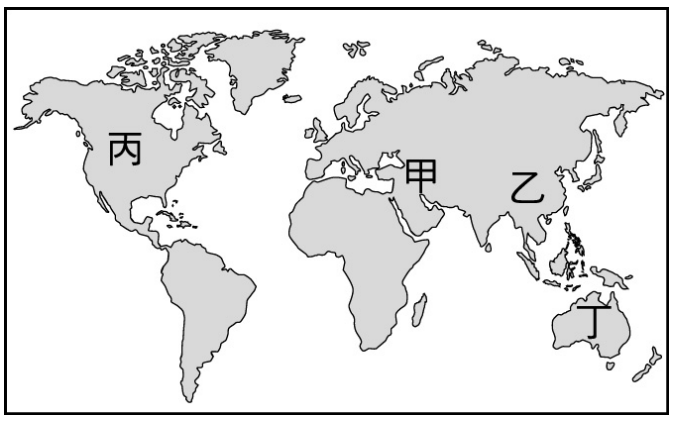

11. 目前全世界人口總數超過 70 億，其中一半以上的人口集中於哪一洲？
(A)亞洲(B)歐洲(C)南美洲(D)非洲

12. 地理老師上課時請同學們分組討論關於溫帶大陸性氣候的內容，其中誰的說法最正確？
(A)阿右：多位於迎風坡
(B)阿昌：距海愈遠，降水量愈多
(C)阿國：夏雨冬乾、年溫差大
(D)阿中：溫帶大陸性氣候區大多臨近海洋

13. 黃河河套地區引河水灌概，農業發達，其中以西套平原最為富庶，是寧夏回族自治區的精華區。請問，右圖中何處因能種植水稻，而有「塞上江南」之稱？
(A)甲　(B)乙　(C)丙　(D)丁

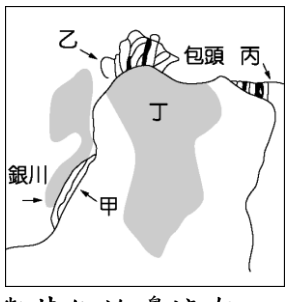

14. 青藏鐵路在國防和軍事位置重要，與其位於邊境有關。請問，與西藏自治區相鄰的國家不包括下列何者？ (A)印度(B)哈薩克(C)不丹(D)尼泊爾

【翻頁作答】

15. 下圖為河西走廊地形剖面圖。請根據此圖判斷，圖中夏季融雪主要源自於下列哪座山脈？
(A)天山 (B)阿爾泰山 (C)崑崙山 (D)祁連山

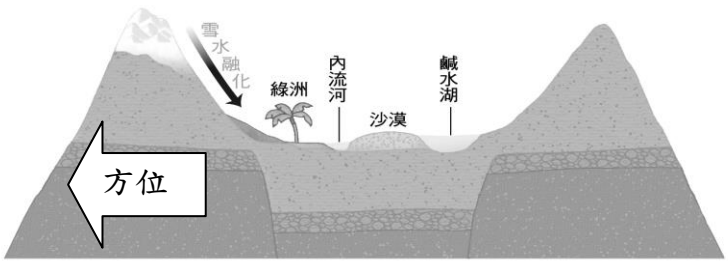

16. 承上題，附圖中「箭號」所指方位為何？
(A)東方 (B)西方 (C)南方 (D)北方

17. 小夫熱衷飛行，喜歡駕著飛機環遊世界。當他從甲地出發，沿著本初經線往南飛行，他可能會經過下列哪些地區？(A)亞洲、歐洲、南極洲 (B)歐洲、非洲、南極洲(C)亞洲、大洋洲、南極洲(D)大洋洲、南美洲、非洲

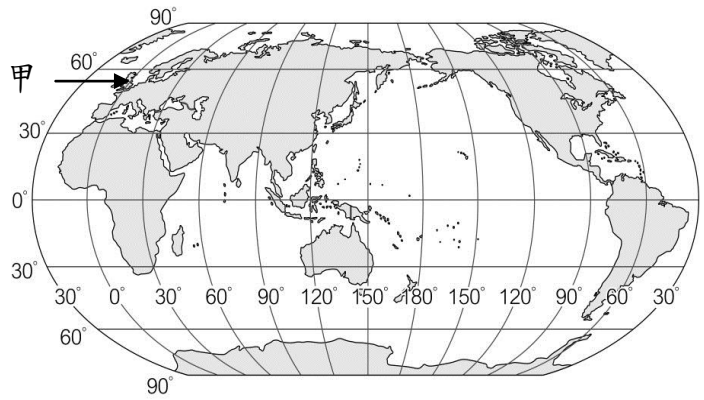

18. 承上題，依照上述路線飛行，當小夫來到 30°N 的地方，最可能看到下列哪一種天然植物？

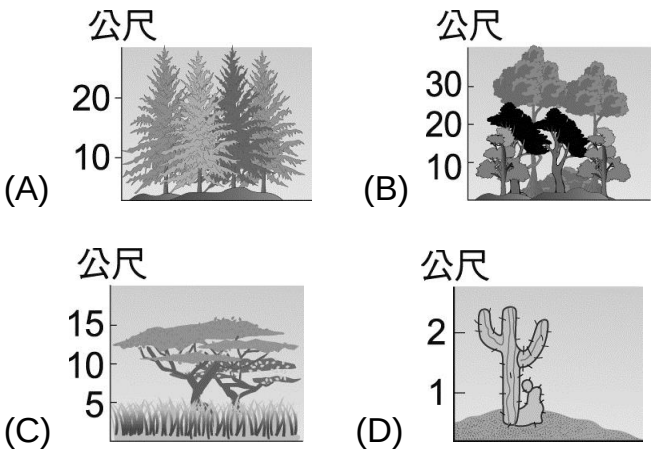

19. 承上題，當小夫繼續往南飛行，看到的是一大片的疏林高草，斑馬、長頸鹿和獅子等動物漫步於草原上。請問，小夫可能來到哪一種氣候區？(A)熱帶季風(B)熱帶雨林 (C)熱帶沙漠(D)熱帶莽原

20. 新疆位於河西走廊西側，地形主要由兩個盆地所構成，並區分為南疆、北疆。請問，下列有關南疆、北疆的敘述何者有誤？
(A)南疆、北疆以天山為分界
(B)北疆為準噶爾盆地，南疆為塔里木盆地
(C)北疆盛行綠洲農業，南疆盛行畜牧業
(D)北疆北部有來自北極海的水氣，故雨量略多於南疆

21. 下圖是新疆地區的居民為了避免水源蒸發所修築的特殊水利灌溉設施，其名稱為何？
(A)坎兒井(B)壩子 (C)河套 (D)水圳

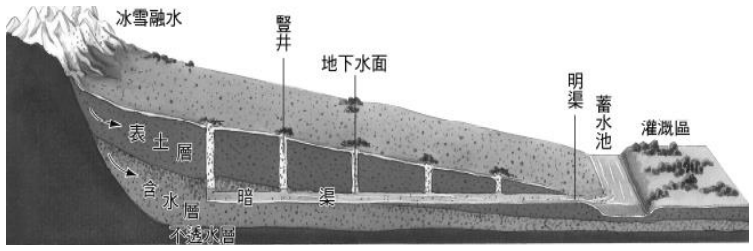

22. 就讀餐飲科的小町想取得丙級調酒師證照，正專心研讀品酒書籍，書中提到「…全球主要生產葡萄酒的國家，通常盛產葡萄、柑橘和橄欖，其氣候多為『夏乾冬雨』，因為夏天缺水，所以這裡有很多水利設施，是屬於灌溉農業。...」請問，根據上述可知，葡萄酒主要出產國的氣候多屬於下列何者？

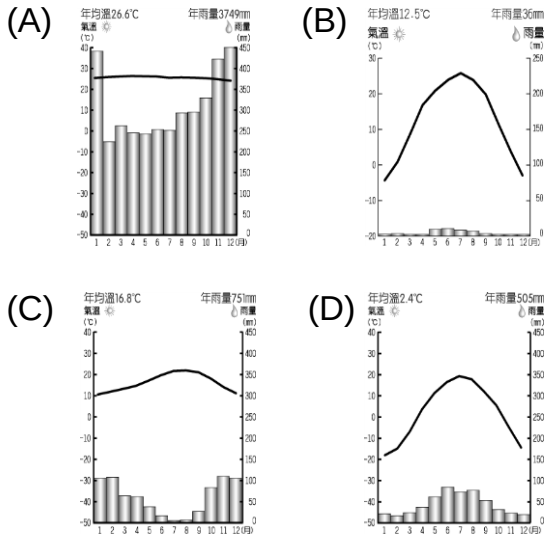

23. 藏南縱谷是位於喜馬拉雅山與岡底斯山之間的谷地，因氣候溫和溼潤而成為西藏的精華區。請問，此區較溫和溼潤是因為夏季有來自何處的水氣？
(A)太平洋(B)大西洋(C)印度洋(D)北極海

24. 承上題，該地區降水的主要來源和降水型態應為下列何者？

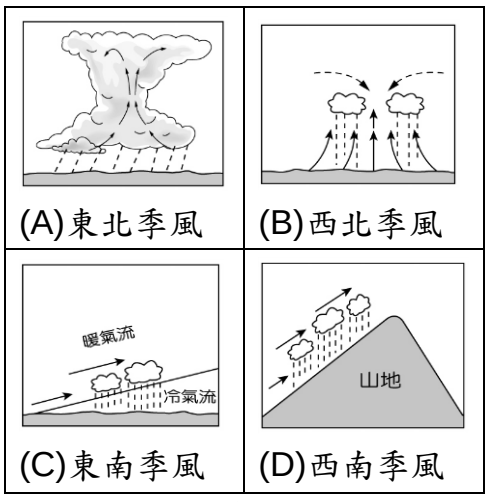

25. 青藏鐵路從西寧至拉薩全長 1956 公里，是全球知名的鐵路，其知名原因除了是世界海拔最高、線路最長的高原鐵路以外，更因為其興建過程須克服多樣困難。請問，上述提及建造時的困難，最不可能為下列何者？ (A)沙塵暴 (B)高山症 (C)凍土(D)生態保育區

【總共 25 題，作答完畢】