高雄市立右昌國民中學105學年度第一學期一年級第二次段考歷史科試題卷

班級: _____ 座號: _____ 姓名: _____

一、 單一選擇題：每題四分，共 80 分

1.(　)臺灣俚語：「有唐山公，無唐山媽」、「紅柿出頭，羅漢腳仔目屎流」、「一個某，卡贏三個天公祖」。這些俚語都跟當時清朝的哪一項政策有關？
(A)劃界封山 (B)渡臺禁令 (C)開港通商 (D)寓兵於農。

2.(　)有關清領前期實施的渡臺禁令敘述，下列哪一項內容有誤？
(A)須申請渡臺證照 (B)只准閩粵地區的人移民來臺
(C)禁止攜帶家眷 (D)清廷對禁令的執行時緊時鬆，民間偷渡的情形始終不斷。

3.(　)臺中市有一所小學名為「土牛國小」，由此校名我們可以推知下列敘述何者是正確的?
(A)在早期應是漢番交界之地 (B)是漢人渡海移民來臺的第一個據點
(C) 是高山族狩獵的地區。 (D) 是鄭氏時期政府發給農具，鼓勵開墾之處

4.(　)清領前期，漢人與原住民間發生衝突時，清廷通常會如何處理？
(A)積極處理兩者間的糾紛 (B)劃定番界，禁止漢人進入原住民地區開墾
(C)禁止原住民進入漢人地區 (D)開山撫番，同化原住民。

5.(　)清廷收復臺灣後，朝中發生棄留臺灣的爭議。其中主張留下臺灣的官員所持的理由為何？
(A)臺灣的土地肥沃，戰略價值高
(B)臺灣曾替荷蘭、鄭氏父子賺取極大的經濟利益
(C)臺灣自古以來就不斷有漢人移入，為了在臺漢人的生活所以必須設官管理
(D)眾多漢人移民臺灣，土地拓墾範圍大，可增加政府財政收入。

6.(　)喬巴想要在暑假到各地旅遊，請問下列哪一個旅遊景點在清領前期為鳳山縣管轄的範圍？
(A)南投九族文化村(B)臺南曾文水庫(C)高雄西子灣(D)嘉義阿里山國家風景區。

7.(　)娜美在收集臺灣史料時，發現一幅清代臺灣的古地圖，從圖中看到臺灣府及三縣的建置，由此可知這應該是屬於下列哪一個時期的地圖？
(A)康熙年間 (B)雍正年間 (C)乾隆年間 (D)嘉慶年間。

8.(　)佛朗明哥與克洛克是清領時期的臺灣商人，分別屬於「南郊」和「北郊」。請問：這種區分方式是以何為標準？
(A)貿易區域 (B)貿易商品 (C)居住的地區 (D)祖籍。

9.(　)羅賓在一篇臺灣史報告中寫到：「他不但長期與清朝對抗，也積極規畫建設，漢人文化從此在臺生根……。」她的報告應該可以以下列哪個選項當作標題？
(A)西班牙人開發北臺灣(B)鄭經在臺灣的經營(C)郭懷一在臺灣的抗爭(D)韋麻郎與聯合東印度公司。

10.(　)根據 17 世紀的外國史書記載：「臺灣有一獨立政權，除了農業開發外，並挾有臺灣海峽的貿易大權，積極經營中國、日本、東南亞貿易路線，此為東寧王國。」請問：「東寧王國」是指臺灣的哪一段歷史時期？
(A)鄭成功時期 (B)荷治時期 (C)清領前期 (D)鄭經時期。

11.(　)佛朗基在作歷史研究時，描繪了一張征戰路線圖，如附圖一所示。請問：他應該是在研究甚麼歷史事件？
(A)鄭成功進攻臺灣 (B)鄭經出兵中國大陸參與三藩之亂 (C)對日八年抗戰 (D)荷蘭人登陸臺灣。

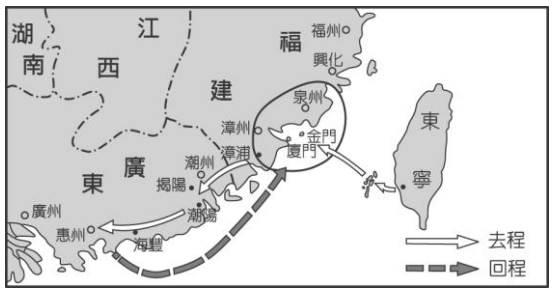

圖一

12.(　)小野田參加臺南市政府舉辦的鄉土采風單車行活動，行經路線包含「新營」、「柳營」、「林鳳營」 ，請問：這些地名的來源皆與哪一史事有關？
(A) 明朝倭寇據地為王的分佈點 (B) 清領時期漢人移民聚居地
(C) 鄭氏分派部將駐紮的屯墾地 (D) 清廷治臺下的行政區規劃

13.(　)「一府二鹿三艋舺」為一句臺灣諺語，描述清領前期全島三大港市盛況，也顯示臺灣仰賴海洋貿易的現象，請問：此句中的的「艋舺」所指為今日何地？
(A) 大臺南地區 (B) 彰化縣鹿港鎮 (C) 新北市八里區 (D) 臺北市萬華區

14.(　)承 13.題的諺語，請問反映了當時以下哪一個事實?
(A) 說明台灣的開發方向是由南而北逐漸展開 (B) 這三個地區先後也成為清領前期的政治行政中心
(C) 是當時台灣原住民最早拓墾的三大聚落 (D) 二鹿的「鹿」是指鹿耳門港的郊商鼎盛

15.(　)鄭經治臺時，以走私方式與中國從事貿易，輸入布帛等生活用品，請問這種狀況顯現出下列何種現象？
（A）鄭氏為海盜出身，習於走私貿易，所以喜歡以走私方式與中國來往
（B）清朝對鄭氏實施海禁政策，以斷絕資源，所以鄭氏只能以走私方式獲取中國商品
（C）臺灣的原住民喜歡中國的布料衣物，所以輸入臺灣的東西以布帛為主
（D）清朝為抵制臺灣的糖品輸出，所以對鄭氏實施海禁政策

16.(　)總北高中想要表演一齣「清領前期的台灣史」的歷史劇。但其中有一段情節的安排是「錯誤」的，請你選出是下列哪一段劇情的安排有「誤」呢？
（A）因為實施海禁政策，使得當時台灣形成「有唐山公，無唐山媽」的現象
（B）嘉慶皇帝一行人從淡水廳玩到彰化縣，不亦樂乎
（C）發現大好人施世榜集資興建的八堡圳，使彰化一帶的農地有水灌溉
（D）府城郊商成立，商業繁盛。

17.（　)在上完歷史課後，四位同學熱烈的討論清領前期臺灣對外貿易的狀況。請問:下列何人的敘述是正確的?
（A）傑克：當時稻米不但自給自足還可以外銷
（B）愛德華：清廷最初規定八里坌是唯一合法的港口
（C）汀奇：因為主要貿易對象為日本，所以出現了許多行郊的組織
（D）凱多：從中國進口許多的紡織品及日常生活用品，說明當時手工業相當發達。

18.(　)「雍正年間，漢人張達京與岸裡社土官立下「割地換水」字據，漢人出資開圳， 將部份土地歸開圳者開墾，而岸裡社取得部份水權，由於開圳費用龐大，張達京等六館業戶合股開鑿，完成了灌溉台中盆地最大的水利設施」請問：這段話所描述的水利設施是？
（A）瑠公圳 （B）八堡圳 （C）貓霧捒圳 （D）曹公圳

19.(　)下表是清領時期，台灣大型水利建設的開鑿者和引用水源的配對，請問下列哪個選項才是正確的？

選項	水圳名稱	主要開鑿者	引用水源
(A)	瑠公圳	張達京	新店溪
(B)	貓霧捒圳	郭錫瑠	濁水溪
(C)	八堡圳	施世榜	大甲溪
(D)	曹公圳	曹謹	高屏溪

20.(　)鄭氏治台時期，臺灣與中國之間的商業往來，必須透過走私貿易才得以進行，那是因為鄭氏政權為了突破下列哪一項政策，而不得不採取的應變措施？
(A)鎖國政策 (B)劃界封山 (C)渡台禁令 (D)海禁政策

二、題組：每題四分，共 20 分

下圖(一)與圖(二)為台灣行政區域劃分的演變圖，請回答下列問題

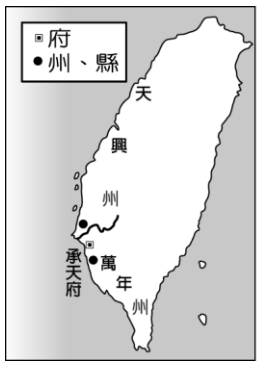

▲圖(一)

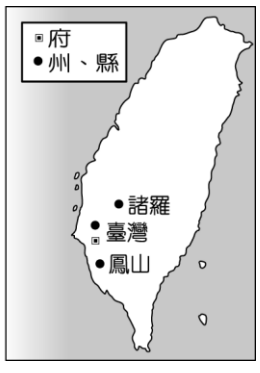

▲圖(二)

21.(　)臺灣的行政區隨著臺灣的開發經過數次的變革。請問：臺灣行政區由圖(一)演變成圖(二)的關鍵為何？
（A）鄭成功時代的建設 （B）鄭經時代的改革 （C）臺灣納入清朝版圖 （D）中華民國的建立。

22.（　)如果要研究圖(一)時期的政教制度，下列何人的資料最值得參考？
（A）郭懷一 （B）鄭經 （C）鄭成 功 （D）施琅。

23.（　)根據圖(二)，當時臺灣的社會、文教發展為何？
（A）建立全臺第一座孔廟，奠定漢人文化的發展 （B）允許漢人與原住民通婚，積極開發土地
（C）發生林爽文事件，造成社會動盪不安 （D）頒布渡臺禁令，限制漢人攜帶家眷來臺。

24.（　)清雍正年間的「淡水廳」所轄範圍，包括今日何地？（A）高雄（B）台北（C）澎湖（D）嘉義。

25.（　)清朝初期的地方行政區劃變化的數量是日漸增多。請問：這些數據的演變具有何種意義？
（A）因為人口漸多，所以加強管理 （B）倭寇盛行，官民恐懼
（C）北方經濟優於南方 （D）教育事業遍及全臺