高雄市立右昌國民中學105學年度第二學期三年級第二次段考歷史科試題卷

三年____班 座號:___ 姓名:_____

一.選擇題： 1-30題每題三分,31-35題每題兩分

(　　) 1.歷史老師在課堂上說：「18-19世紀期間，世界發生一些重大歷史事件，對於日後世界歷史影響深遠」請問:歷史老師所指的歷史事件**不包括**下列何者?

(A) 新帝國主義興起　(B) 明治維新　(C)科學革命　(D)啟蒙運動

(　　) 2.威智的興趣是收集各國錢幣，有天赫然發現俄國錢幣盧布500元的紀念幣是歷史課本出現的人物，如右圖,請問：有關這個國家的敘述,下列何者正確？

(A)中古時期受到塞爾土耳其帝國的影響,因此信仰希臘正教

(B)十七世紀時,彼得大帝推動西化政策

(C)史達林帶領百姓發起十月革命, 並且建立史上第一個共產政權

(D)二戰後,該帝國瓦解並建立許多新興國家

(　　) 3.小平在某本臺灣史書籍的目錄頁，看到以下的標題：**設立郵便局**、**統一度量衡**、**完成基隆到高雄的西部縱貫鐵路**。請問：這本書所敘述的內容，應該是下列哪一個時期？

(A)鄭氏統治臺灣時期　(B)清朝統治臺灣時期　(C)日本統治臺灣時期　(D)解嚴後的臺灣。

(　　) 4.進偉為了復習歷史，主動整理了一張表格，如右圖所示。請問：這張表格是紀錄哪一位皇帝的措施？

(A)秦始皇　(B)漢武帝　(C)唐太宗　(D) 明成祖

項目	措施
政治	首創年號制度
文化	罷黜百家獨尊儒術
武功	討伐匈奴、通西域

(　　) 5.中國歷代朝廷選拔人才，各有特定的方式，讀書人須經由不同的管道出仕為官。下列關於歷代選材制度的敘述，何者正確？

(A) 魏晉南北朝推行九品官人法，選才重才能、品行 (B) 唐朝首創科舉制度，促進社會階級流動

(C) 宋朝實施察舉制度，各郡國人才經過考試而任官 (D) 明清時期,以八股文取士，阻礙士人思想發展

(　　)6.啟宗在閱讀一本介紹有關中國近代史發展的歷史書，書中提到「護法運動與南北分裂」、「五三慘案」、「五四運動」等史事。請問：啟宗可能閱讀到下列哪段時間的史事？

(A) 民初的軍閥亂政　(B) 黃金十年　(C) 八年抗戰時期　(D) 大躍進時期

(　　)7. 金門地區流行一句口號:「金門有三寶，貢糖、菜刀、高粱酒。」據當地人們的說法，金門菜刀之所以有名，是由於以炮彈的彈殼鎔鑄而成，因此硬度高又耐用。根據上述，金門菜刀的誕生應與下列哪一事件有關？(A)國共內戰　(B) 八二三炮戰　(C) 二二八事件　(D) 美麗島事件

(　　)8.上歷史課，老師要同學們針對**右圖**中的地區進行報告，請問下列哪幾位同學敘述正確呢?

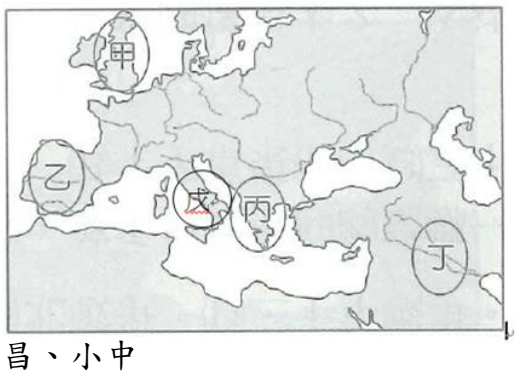

小右:甲區是工業革命的發源地，十九世紀時迫使日本結束鎖國

小昌:乙區最早從事海外探險的國家,日後在亞洲、美洲建立殖民據點

小國:丙區是最早實施民主政治的起源地，第二次世界大戰在此引爆

小中:丁區在上古時期以楔形文字為共通文字,一周七天制也起源於此

小強:戊區是文藝復興發源地，兩次世界大戰均為戰敗國。

(A)小右、小國　(B)小昌、小國　(C)小國、小強　(D)小昌、小中

(　　) 9.「第三世界」的出現為國際注入了一股新的力量。請問：關於「第三世界」的這些新興國家，下列敘述何者正確？

(A)它在戰間期出現　(B)它的成含包含非、歐、拉丁美洲國家

(C)內部動盪不安，經濟蕭條　(D)與美國建立結盟關係

(　　)10.語柔在探索臺灣地名之由來時發現，今天臺南市左鎮、高雄市左營等地名的由來應該與下列何者相關？

(A)原住民的部落　(B)荷蘭軍隊駐紮地　(C)鄭氏時期的軍屯所在地　(D)清領時期劃界封山所在地

(　　)11.貫旭想撰寫一篇「毛澤東傳」,於是借了以下的幾本書籍，請問他可以參考哪些書籍才能符合史實？

(甲)《五四運動始末》　(乙)《大躍進之我見》　(丙)《文化大革命》　(丁)《抗美援朝始末》

(A)甲乙丙　(B) 乙丙丁　(C)甲丙丁　(D)甲乙丁

(　　)12.課堂上同學們正在討論臺灣的史前文化遺址，其中**甲遺址**發現紅褐色的陶器和煉鐵作坊；**乙遺址**的特色是已知用火，使用打製的石器，過著採集、狩獵和漁撈的生活；**丙遺址**發現根莖作物,以及粗繩紋陶器這三個遺址按照時間先後順序排列應該是下列何者？

(A)甲→乙→丙　(B)乙→丙→甲　(C)丙→甲→乙　(D)甲→丙→乙。

(　　) 13. 附圖呈現某一歷史事件前後，清朝治臺措施的差異。從圖中內容判斷，此一事件後,清廷派何人治理台灣？
(A)沈葆楨　　(B)丁日昌
(C)劉銘傳　　(D)邵友濂

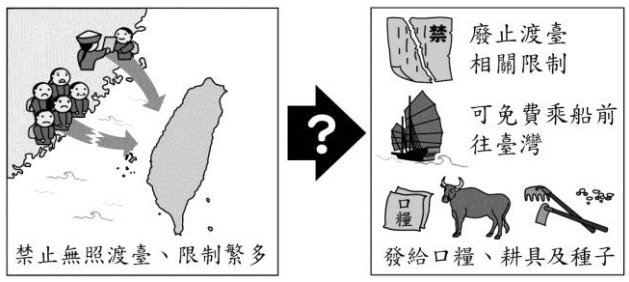

(　　) 14. 某書提及：「清廷想收回民間集資興建鐵路的權利，所以針對民間已投資者提出補償：在湖南、湖北，投資金額全數償還；在廣東，僅償還 60%，其餘 40%由政府股票支付；在四川，政府僅發給股票。這種處置引起四川士紳激憤，朝廷為控制騷亂，將部分湖北軍隊調往四川。」上述情況最可能為下列何者的發生提供了機會？
(A)戊戌變法　　(B)臺灣民主國　　(C)辛亥革命　　(D)日俄戰爭

(　　) 15. 竹安為了讓歷史報告更加完整呈現,於是趕緊替每個朝代下註解,但有一處卻寫錯了,請幫她找出**錯誤**之處? (A)東周的特色是貴族沒落、平民崛起　　(B)西漢衰亡的主因與外戚、宦官輪流干政有關
(C)宋朝出現第一本編年體的通史　　(D)元朝是版圖最遼闊的朝代

(　　) 16. 庭豪搭時光機回到十四世紀的義大利熱那亞,那是一座商業大城,人群熙來攘往,街道上熱鬧非凡。庭豪偶然之間認識了一位打鐵師傅。事實上,這座城市,不是一開始就如此熱鬧繁榮,它是從小城鎮,慢慢發展而成。請問：下列哪一事件,是促成這座城市發展最重要的因素?
(A)波希戰爭　　(B) 亞歷山大東征　　(C) 十字軍東征　　(D)英法百年戰爭

(　　) 17. 志浩在書中讀到一段資料:「這種文字透過羅馬字母來拼音,最初傳教士用來翻譯《聖經》,後來被用於土地買賣、租賃等方面的契約文書,民間俗稱**番仔契**。」請問：志浩所閱讀的書籍名稱應是下列何者?
(A)《陳永華傳 》　(B)《鴨母王的傳奇》　(C)《荷蘭與新港文書》　(D)《西班牙與聖多明哥城》

(　　) 18. 有「東方巴黎」稱號,是中國最早有自來水、電話等設備的城市,且是最早有新式的西方教育的地區。請問：這是哪個城市? (A)廣州　　(B)上海　　(C)南京　　(D)北京

(　　) 19. 冷戰結束後，世界並未邁向真正的和平，反而轉變為西方文明與伊斯蘭文明之間的衝突。西方世界干涉伊斯蘭世界內政，而伊斯蘭世界以恐怖攻擊報復，彼此紛爭不斷。請問：下列何者是西方文明與伊斯蘭文明衝突下的悲劇事件？
(A)韓戰　　(B)911 事件　　(C)古巴危機　　(D)柏林危機

(　　) 20. 不平等條約是中國百年來的束縛，下列清末與各國簽訂的不平等條約的內容，何者正確？
(A)＜南京條約＞是清朝對外第一個不平等條約，同時也將香港割讓給美國
(B)＜馬關條約＞正式允許外國人在通商口岸設廠製造,同時割讓臺灣、澎湖、朝鮮給日本
(C)中英法＜天津條約＞割讓越南、琉球給法英兩國,臺灣也在此時開港通商
(D)＜辛丑和約＞賠款最多且允許外國軍隊駐兵北京，對中國的財政與國防影響甚鉅

(　　)21.「對於許多美國人來說,1960 年代的戰事簡直是一場噩夢,為了一個遙遠的亞洲國家,犧牲了許多美國子弟的生命。」請問：文中所提到的戰事為下列何者?
(A)韓戰　　(B)越戰　　(C)中東戰爭　　(D)兩伊戰爭

(　　) 22. 歷史課同學進行分組報告,淮恩上臺說明「明清時期的經濟發展」,以下內容何者正確?
(A)人民使用寶鈔買烤玉米　(B)從占城引進早熟稻　(C)市舶之利是重要收入　(D)商人在各地設立會館

(　　) 23. 老師講述某一帝國歷史時說：「這個國家軍事興盛時,攻城滅敵,占領君士坦丁堡,以其為首都,並建立橫跨三洲的帝國,將其占領下的許多教堂改為清真寺。後來國勢漸弱,..到了一戰後因為戰敗,只能任人宰割。」此帝國可能是下列何者?
(A)鄂圖曼土耳其帝國　　(B)俄羅斯帝國　　(C)德意志帝國　　(D)拜占庭帝國

(　　) 24. 宇倫在歷史課堂中報告西歐某一時期時提到以下內容：「當時君主積極發展工商業，力求增加稅收；並改革法律制度，興辦教育事業，以提高行政效率及國民素質」。請問:宇倫在這堂課的報告主題應是：
(A)中古時期的莊園經濟活動　　(B)十三世紀的東西文化交流
(C)十六世紀西歐的文藝復興　　(D)十八世紀的開明專制理念

(　　)25. 一座教堂，原本建築在羅馬神廟的遺址上，八世紀時，改建成清真寺；十三世紀時，又改為羅馬教會的主教座堂；十六世紀時，重新修建。這座教堂因經歷不同的歷史發展，被聯合國列為世界遺產。這座教堂最可能位在：　(A)巴爾幹半島　　(B) 伊比利半島　　(C)阿拉伯半島　(D)義大利半島

(　　)26. 第一次世界大戰後,許多國家為防止戰爭再起,莫不致力於維持世界和平,但是,哪一項軍事行動首先破壞戰後和平,引起其他國家仿效,繼起侵略他國?
(A)德國入侵奧地利　(B) 義大利入侵衣索比亞　(C)日本侵略中國東北　(D)法國併吞越南

(　　)27.歷史上某一時期，甲乙雙方舉行效忠儀式：甲方向乙方保證，願以自由人身分，終身服事乙方， 絕不脫離乙方保護， 如有違背， 願以金錢賠償； 乙方則保證，宣誓之後， 將終身保護甲方。這個效忠儀式最可能在何時何處舉行？

(A)六世紀前期君士坦丁堡的皇宮　　(B)十一世紀中期德國北部的莊園

(C)十七世紀後期英國南部的城堡　　(D)十九世紀後期美國南部的棉田

(　　) 28.我們今天所使用的許多科技如網路、電腦、人造衛星都是在「冷戰」時期發明的，請問「冷戰」始於何時？終於何時？

(A)蘇聯建立共產政權至蘇聯解體　　(B)韓戰爆發後至九一一事件發生前

(C)古巴危機後至德國宣告正式統一　　(D)二次大戰結束後至蘇聯解體

(　　) 29.第二次世界大戰後，國際局勢的發展，除了反共與共產兩大陣營間的對峙外，部分國家基於共同的文化背景，或政治、經濟方面的利益，共同組成區域性的組織。當今的區域統合組織中，臺灣目前是哪一個區域統合的會員國？　(A)亞太經濟合作會議　(B)歐洲聯盟　(C)聯合國　(D)東南亞國協

(　　) 30.兩次世界大戰之間，國際局勢在各方面變化劇烈。同學們討論戰間期國際局勢的發展，請問：下列哪一位的說法出現了錯誤？

(A)仁惠：印度發起不合作運動　　(B)玉明：史達林推動計畫經濟

(C)默默：聯合國的成立　　(D)小倩：墨索里尼的極權統治

(　　)31. 下表是老師指派給同學回家完成的歷史作業。請問：這份作業最後一項答案為何？

主題：史上第一個偉大的科學時代
作者：歐幾里德
著作：《幾何原本》為世界上使用最久的教科書
時期：？

(A)希臘化時期　(B)羅馬時期　(C)科學革命時期　(D)二十世紀的科技成就

(　　)32.下列有關史事的影響與配對，何者正確？

(A)班固出使西域-促進中西文化交流

(B)安史之亂—危害大江南北，使唐朝迅速步向滅亡

(C)靖難之變—導致日後北宋滅亡

(D)高壓與懷柔政策並用—鞏固清朝在中國的統治政權

(　　) 33.「西元 1991 年 8 月，一些保守派政治家和軍人趁蘇聯總統在克里米亞度假時發動政變將他軟禁，被釋放後的總統聲望卻不及以往。」請問：下列何者與此位曾被軟禁的蘇聯總統的改革政策無關？

(A)第三世界興起　(B)蘇聯解體　(C)東、西德統一　(D)冷戰落幕。

(　　)34.考古學界普遍認為:「都市、文字和青銅器是文明的三個要素」,中國古文明當中,最早具有上述三項特質的是下列哪一個文化?

(A) 甲　(B) 乙　(C) 丙 (D) 丁

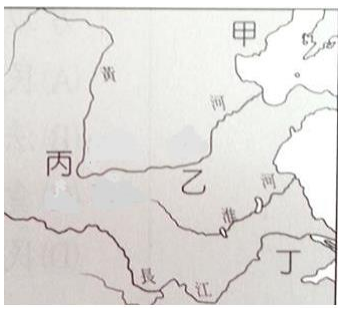

(　　)35.「馬歇爾計畫」的目的在協助二戰後某地的經濟復興,從1948~1951年間,美國支援該地120億美元,對該地戰後經濟的復甦貢獻極大。請問：此計畫主要協助哪一地區的經濟復甦？

(A)歐洲　(B)亞洲　(C)非洲　(D)拉丁美洲