高雄市立右昌國民中學　九十九學年度第一學期 二年級 第一次段考　地理科 試卷

年　　班　座號：　　姓名：

一、單選題(1~20題，每題四分)

(　) 1.中國大陸的地形剖面圖階梯形勢如下圖所示，請問圖中的**第一級階梯**是下列哪一個地形區？
(A)青藏高原 (B)內蒙古高原 (C)黃土高原 (D)雲貴高原。

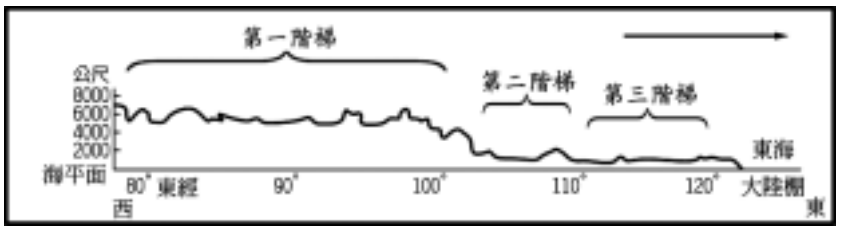

(　) 2.承上題圖的剖面圖，主要是依據右圖中哪一條剖面線繪製而成？
(A)甲 (B)乙 (C)丙 (D)丁 。

(　) 3.澳門的蛋塔曾經風靡全臺。請問蛋塔的特色源自於哪一個長期統治該地區的國家？
(A)日本 (B)英國 (C)葡萄牙 (D)西班牙。

(　) 4.下列何者的行政層級<u>不屬於</u>省級行政區？(A)西藏自治區 (B)成都市 (C)重慶市 (D)青海省。

(　) 5.時間為早上八點，住在<u>上海</u>〈時區 120°E〉的仕柏準備去上學，此時<u>西藏拉薩</u>〈時區 90°E〉的高元被鬧鐘驚醒，請問高元鬧鐘的時間顯示應為幾點？ (A)五點 (B)六點 (C)七點 (D)八點。

(　) 6.中國大陸地區面積廣大、地理位置優越，請問其疆域跨越右圖哪兩個氣候帶？
(A)甲乙 (B)乙丙 (C)丙丁 (D)丁戊。

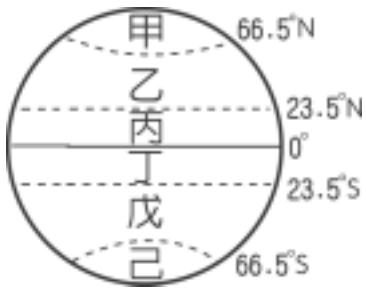

(　) 7.<u>世界博覽會</u>又稱<u>國際博覽會</u>或<u>萬國博覽會</u>，其舉辦的目的是希望透過一個國際性的展覽平台，使參與國家得到廣泛的聯繫與交流。下圖(一)是阿威在網路上搜尋到的 2010 世博會資料，自西元 2008 年<u>台灣</u>與<u>中國</u>兩岸開放直航後，他要從台北出發前往參觀，應該是搭乘圖(二)中哪一航線？ (A)甲 (B)乙 (C)丙 (D)丁 。

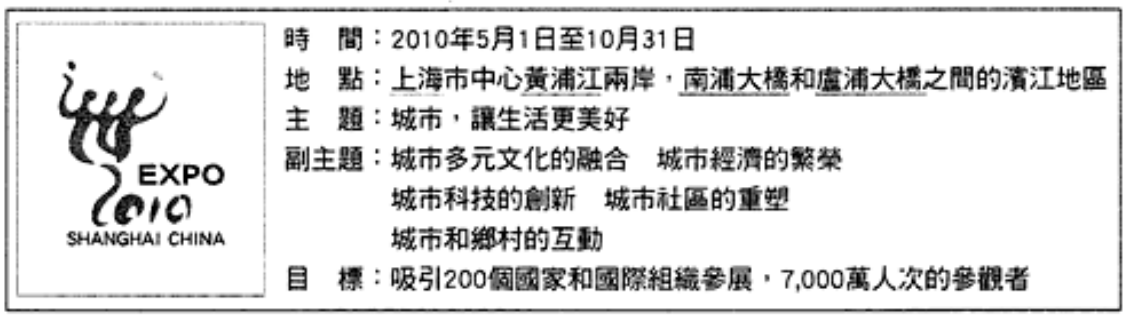

圖(一)

圖(二)

(　) 8.「寶拉利絲號探勘船」與<u>中國</u>探勘船合作，要在中國東部沿海進行為期一年的海底地質學術研究。請問若探勘船從<u>基隆</u>港出發**向北**航行至<u>天津</u>港，會**依序經過**那些海域 ？ ㄅ.南海 ㄆ.東海 ㄇ.渤海 ㄈ.黃海
(A) ㄅ→ㄆ→ㄈ (B) ㄅ→ㄆ→ㄇ (C)ㄆ→ㄇ→ㄈ (D)ㄆ→ㄈ→ㄇ 。

(　) 9.中國大陸的地形區中，哪一個離<u>臺灣</u>最近？ (A)東南丘陵 (B)珠江三角洲 (C)嶺南丘陵 (D)山東半島。

(　) 10.中國海陸位置是「東面海、西背陸」，請問這樣的地理位置主要對中國造成下列哪些影響？ㄅ.全區氣候溫和 ㄆ.往內陸、外海發展均便利 ㄇ.東部地區深受海洋影響 ㄈ.資源眾多
(A)ㄅㄆ (B)ㄇㄈ (C)ㄆㄈ (D)ㄆㄇ。

(　) 11.右圖是一張中國各類地形所佔比例圖，請問：此圖最足以說明中國的哪項地理特色？
(A)地形複雜 (B)地大物博 (C)面積廣闊 (D)地勢西高東低。

★背面有試題

(　) 12.中國的京杭大運河南北向連接了中國許多大河，何者是京杭大運河沒有經過的河川？
(A)海河　(B)淮河　(C)錢塘江　(D)珠江。

(　) 13.中國大陸面積廣大、鄰國眾多，請問下列哪一個鄰國不是中國大陸**「南方」**的**「陸上鄰國」**？
(A)越南 (B)印度 (C)蒙古 (D)緬甸。

(　) 14.右圖是中國三大地理分區圖，請問該地理區的劃分依據主要為何?
(A)地勢高低 (B)人口密度 (C)自然與人文特色 (D)行政區多寡。

(　) 15.承上題右圖，哪些地區範圍內包含「省」與「直轄市」兩種省級行政區?
(A)南部、北部　(B)北部、西部　(C)南部、西部　(D)三區皆有。

(　) 16.中國東部沿海海岸線很長，北方多沙岸，南方多岩岸。請問下列濱海地形與海岸配對何者錯誤?
(A)山東丘陵→岩岸 (B)華北平原→岩岸 (C)東南丘陵→岩岸 (D)珠江三角洲→沙岸。

(　) 17.西高東低影響中國大河多流向東方，往東注入哪個海洋? (A)印度洋 (B)大西洋 (C)太平洋 (D)北極海。

(　) 18.中國地理區劃分中依經濟發展可分為三大經濟帶，如右圖所示。若結合地形概念，請問圖中的「東部經濟帶」主要是以哪兩種地形為主體？
(A)山地、高原 (B)高原、盆地 (C)盆地、平原 (D)平原、丘陵。

(　) 19.上地理課時老師要同學描述中國的位置與範圍，請問下列誰的說法是正確的?
(A) 小吟：中國領土位在台灣的東北方，日本的西方。
(B) 年年：中國領土位於東半球、北半球。
(C) 珊珊：中國疆域範圍精度東西共跨越四個時區。
(D) 阿哲：中國疆域範圍緯度最北進入寒帶氣候區。

(　) 20.廣西壯族自治區境內非常有名的「龍勝梯田」，是當地壯族人為適應地形環境而開闢，有「世界梯田之冠」的稱號。請問此自治區主要位於右圖中何地？　(A)甲 (B)乙 (C)丙(D)丁。

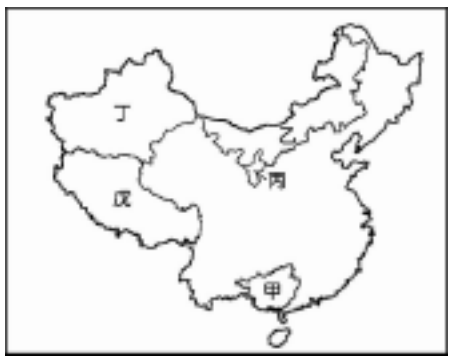

二、綜合題組(21~30題，每題2分)

中國領土遼闊，地形相對也複雜多樣！下圖是中國地形圖，請根據圖中代號回答下列問題：

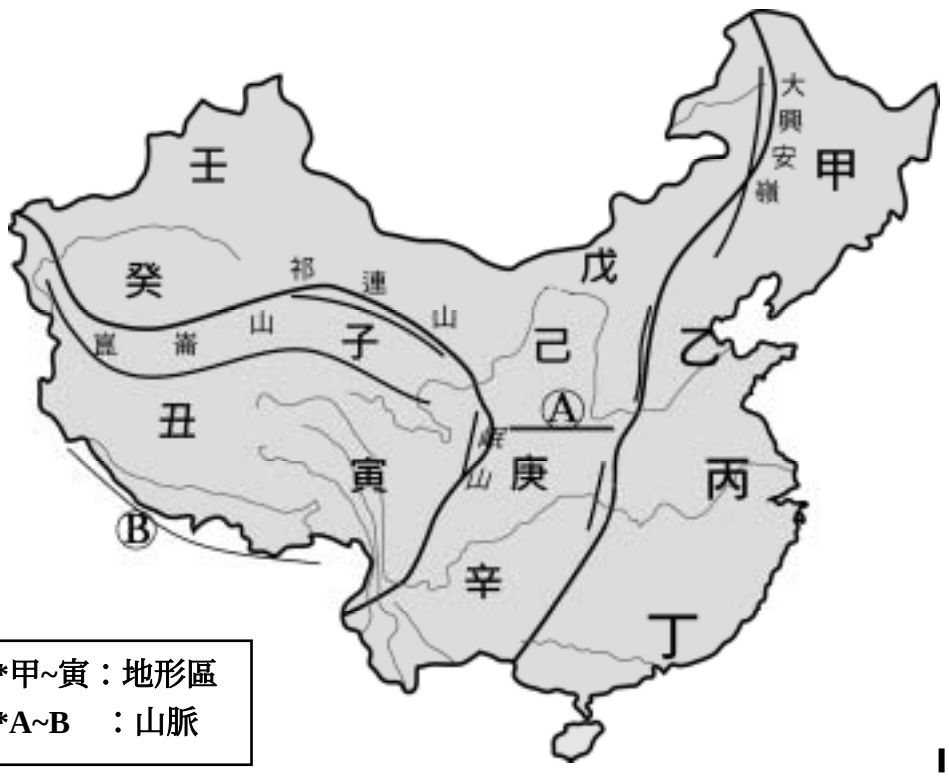

*甲~寅：地形區
*A~B　：山脈

★翻第 3 頁繼續作答

( ) 21.號稱「近得去、出不來」的「塔克拉瑪干沙漠」，位於中國最大的盆地裡，請問是在圖中代號何處?
(A)壬 (B)癸 (C)子 (D)丑。

( ) 22.三國時代蜀國軍師諸葛亮曾讚譽為「天府之國」，形容該地區形勢險要，物產豐饒。請問位於圖中何處?
(A)戊 (B)己 (C)子 (D)庚。

( ) 23.圖中「A」處山脈為中國南北地理區分界，也是氣候、交通、農作物的重要分界線。請問此座山脈是?
(A)天山 (B)橫斷山脈 (C)秦嶺 (D)喜馬拉雅山。

( ) 24.圖中「己」區主要是下列何種等高線圖所代表的地形?

(A)

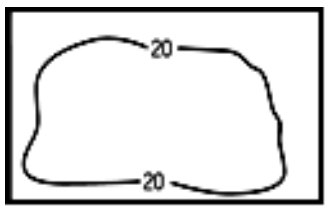

(B)

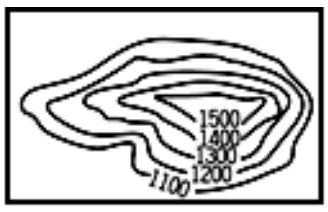

(C)

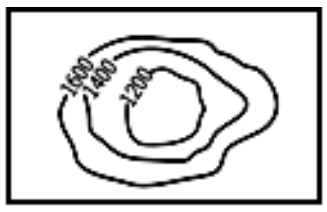

(D)

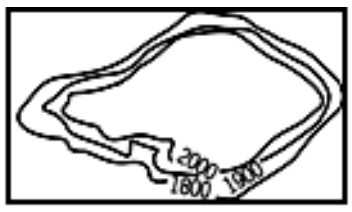

( ) 25.承上題，「己」地表崎嶇，溝壑縱橫如右圖所示。請問造成此現象的主要作用力為何?
(A)河川侵蝕(B)冰河侵蝕 (C)風力侵蝕 (D)風力堆積。



( ) 26.若想要見識山、川平行排列，山高谷深落差大的縱谷地形，到中國何處旅遊可以觀賞到?
(A)丙 (B)丁 (C)子(D)寅。

( ) 27.中國的政治中心，也是 2008 年舉辦奧運的城市，位於圖中哪一個地形區當中?
(A)甲 (B)乙 (C)丙 (D)丁。

( ) 28.中國西南側的「B」山脈是世界最高大的山脈，同時是中國和哪一個陸上鄰國的天然屏障？
(A)印尼 (B)印度 (C)俄羅斯 (D)哈薩克。

( ) 29. 板塊運動會影響山脈走向，請問在中國大陸**西半部**地區的山脈走向主要是下列何者？

(A)

(B)

(C)

(D)

( ) 30. 承上題，西半部地區主要是哪兩塊板塊互相推擠撞擊，導致山地、高原等地形隆起?
(A)歐亞板塊 vs.菲律賓海板塊 (B)歐亞板塊 vs.非洲板塊 (C)歐亞板塊 vs.印澳板塊 (D)歐亞板塊 vs.太平洋板塊。

★試題結束 ☺